Pre-Ecolier

3 points

1. 右(みぎ)の 絵(え)と 同(おな)じ テントウムシは どれかな？



(A) 
(B) 
(C) 
(D) 
(E) 

2. 下(した)の パズルの 空(あ)いている ところに ぴったり はまる 動物(どうぶつ)は どれかな？



(A) 
(B) 
(C) 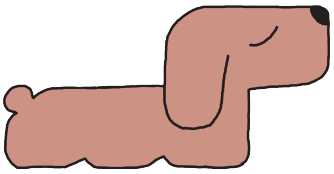
(D) 
(E) 

3. イヌが、 めいろの 中(なか)を かけまわるよ。
何本(なんぼん)の ホネを ひろえるかな？

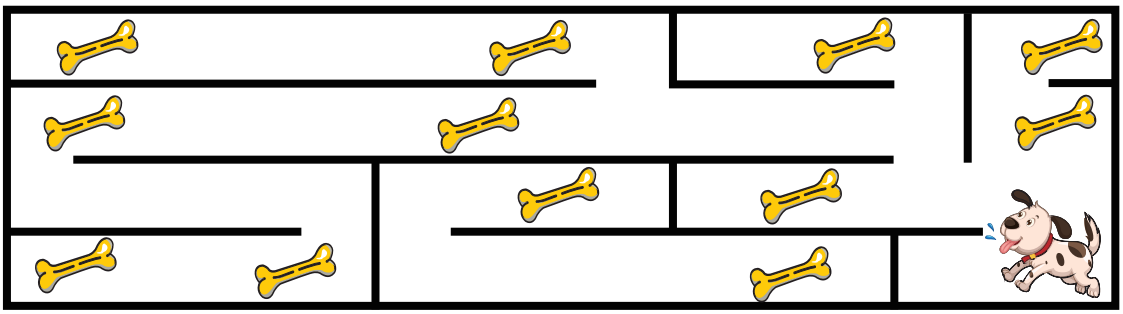

(A) 8　(B) 9　(C) 10　(D) 11　(E) 12

4. アンの お友達(ともだち)が 遊(あそ)びに きたよ。
下(した)の 絵(え)は お友達(ともだち)の くつだよ。



遊(あそ)びに きた お友達(ともだち)は 何人(なんにん)かな？

(A) 6　(B) 7　(C) 8　(D) 12　(E) 14

5. わなげを するよ。
1つ せいこうすると 3ポイント もらえるよ。

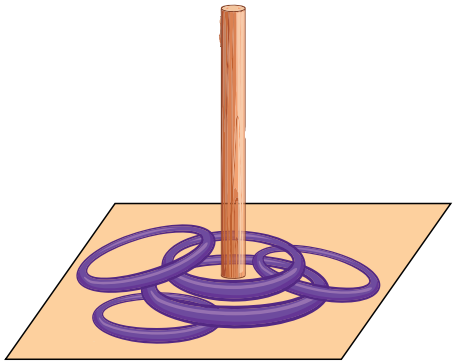

上(うえ)の 絵(え)は、 何(なん)ポイント かな？

(A) 3　(B) 6　(C) 9　(D) 12　(E) 15

6. バーナードが 下の ように コインを ならべたよ。

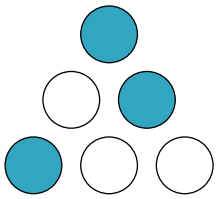

コインの おもては青(あお)、 うらは 白(しろ)だよ。
コインを ぜんぶ うらがえすと どうなるかな？

(A)

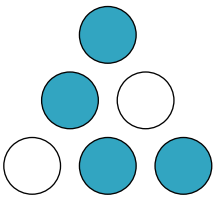

(B)

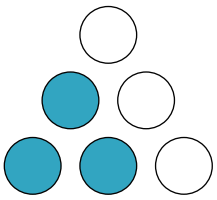

(C)

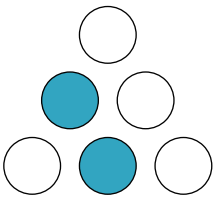

(D)

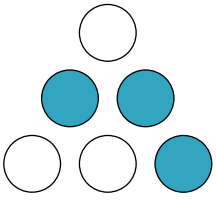

(E)

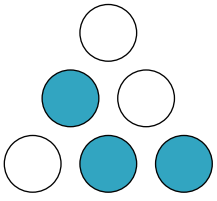

7. モンスターが 2チームに わかれたよ。

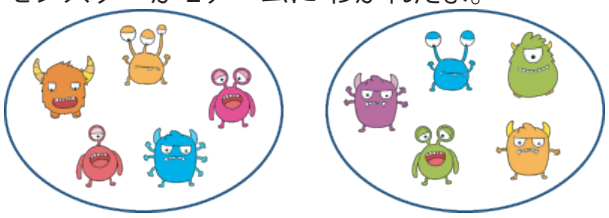

同じ チームの モンスターだけ あつまっているのは どれかな？

(A)

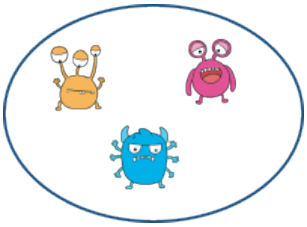

(B)

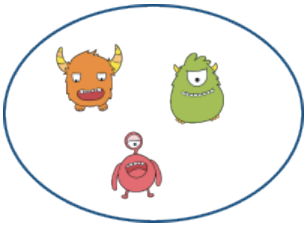

(C)

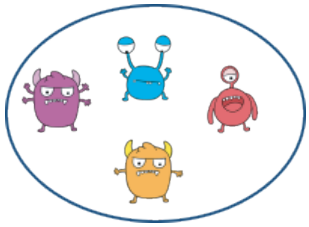

(D)



(E)

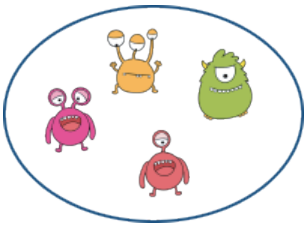

8. 緑の タイルは、 白の タイルより 何まい 多いかな？

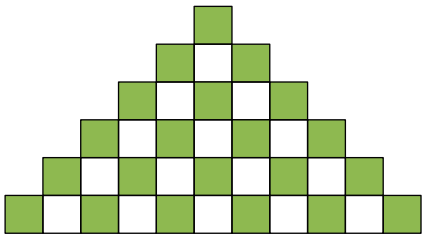

(A) 4　(B) 5　(C) 6　(D) 7　(E) 8

4 points

9. アビゲイルが まどに ABCと ハートを かいたよ。

A B C ♥

まどの はんたいからは、 どう 見えるかな？

(A) A Ɓ C ♥

(B) ♥ B Ↄ A

(C) ♥ A B C

(D) Ↄ Ɓ A ♥

(E) ♥ Ↄ Ɓ A

10. ミツバチたちが、 2つの 円(えん)に なっているよ。



2つの 円(えん)の ミツバチを おなじ 数(かず)に するよ。

Aから Bに いどうする ミツバチは 何(なん)びきかな？

(A) 1　　(B) 2　　(C) 3　　(D) 4　　(E) 5

11. おばあちゃんが 下(した)の 絵(え)のように ケーキを 3回(かい)切(き)ったよ。

そのあと、 向(む)きをかえて、 4回(かい)切(き)ったよ。

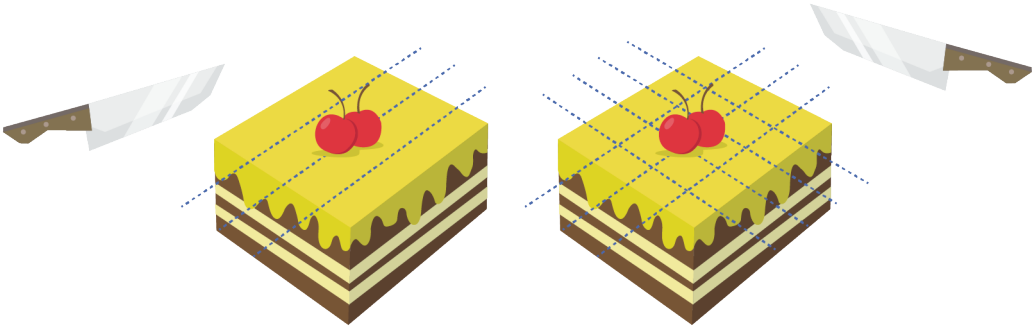

ケーキは 何(なん)きれに なったかな？

(A) 14　　(B) 16　　(C) 18　　(D) 20　　(E) 21

12. オウムの ピエールは、 となりの いたまで ジャンプするのに、 2びょう かかるよ。

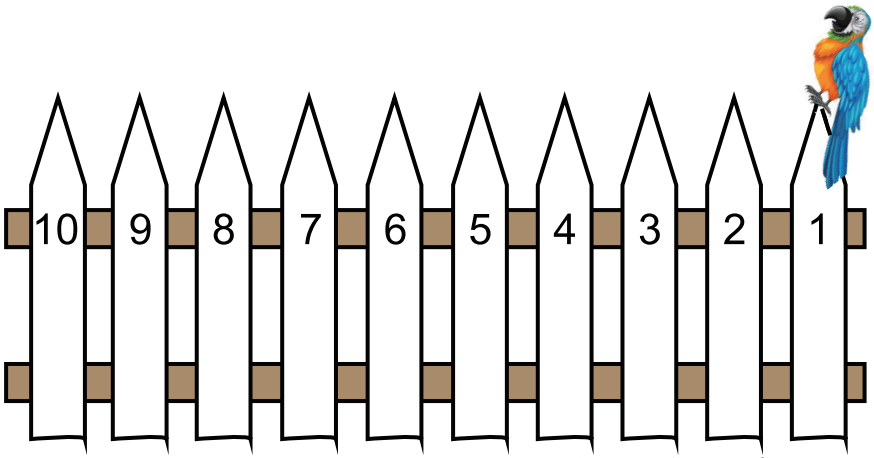

1ばんの いたから 10ばんの いたまで、 じゅんばんに ジャンプしていくよ。

10ばんの いたに つくまでに、 何(なん)びょう かかるかな？

(A) 10　　(B) 16　　(C) 18　　(D) 20　　(E) 22

13. 5まいの ピースを ならべると カンガルーに なる パズルが あるよ。
ピースが 4まいしか 見当(みあ)たらないよ。

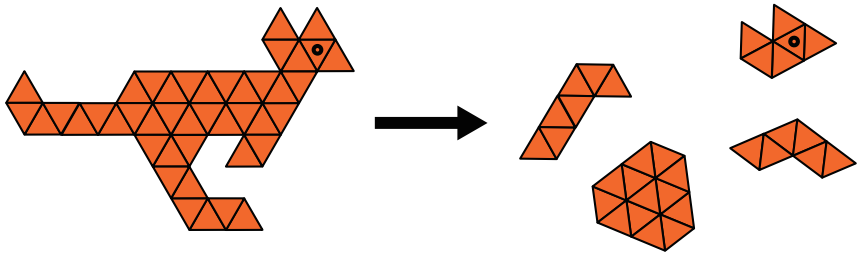

もう1まいの ピースは どんな形(かたち)かな？

(A) 
(B) 
(C) 
(D) 
(E) 

14. ビーバーの ビリーが、 Kに 色(いろ)を ぬっているよ。

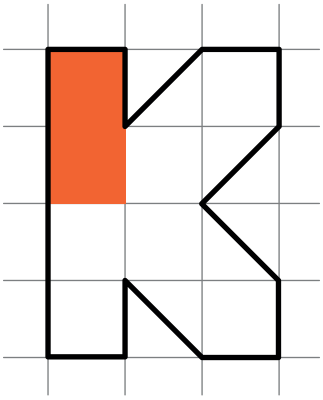

ここまで ぬるのに、 えのぐを 1本(ぽん) つかったよ。
Kを ぜんぶ ぬるためには、 えのぐは あと 何本(なんぼん) いるかな？

(A) 2　(B) 3　(C) 4　(D) 5　(E) 6

15. ステファニーは、 青(あお)、 黄色(きいろ)、 赤(あか)の 本(ほん)を 持(も)っているよ。



黄色(きいろ)い 本(ほん)は、 赤(あか)い 本(ほん)より 4ページ 多(おお)いよ。
黄色(きいろ)い 本(ほん)は、 青(あお)い 本(ほん)より 7ページ 多(おお)いよ。
では、 青(あお)い 本(ほん)は、 赤(あか)い 本(ほん)より 何(なん)ページ 少(すく)ないかな？

(A) 3　(B) 4　(C) 7　(D) 10　(E) 11

16. 青い 立方体を 18こと 黄色い 立方体を 9こ 使って、 大きな 立方体を 作ったよ。

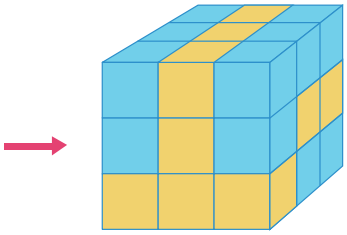

ダニエルは、 左の 面を 見たよ。

どう 見えるかな？

(A) 

(B) 

(C) 

(D) 

(E) 

5 points

17. フィリップは、 緑の ブロックと 青の ブロックを つかって、 6本の タワーを 作ったよ。

どの タワーも ブロックを 5こ つかったよ。

同じ 色の ブロックは くっついて いないよ。

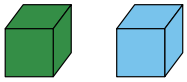

6本の タワーを 上から 見ると、 下のように 見えるよ。

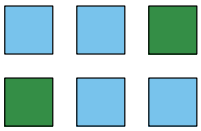

青の ブロックを ぜんぶで 何こ つかったかな？

(A) 10　　(B) 12　　(C) 15　　(D) 16　　(E) 20

18. 2つの タイルを ならべて 作れない もようは どれかな？

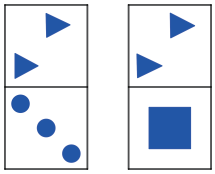

(A) 

(B) 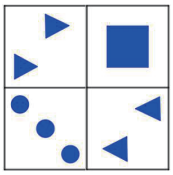

(C) 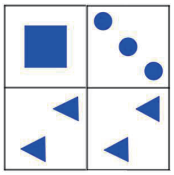

(D) 

(E) 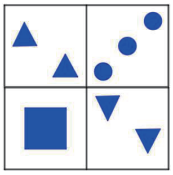

19. いちばん 左に かいてある 形と、 いちばん 上に かいてある 動物を 組み合わせた 表があるよ。
フランクが インクを こぼしちゃった！



Xの ところに かいてあった マークは どれかな？

(A) 　(B) 　(C) 　(D) 　(E) 

20. アニアが 糸とビーズで ブレスレットを 作るよ。

- まず、 糸の 左から、 白い ビーズを 2こ 入れるよ。
- つぎに、 糸の 左から 黒い ビーズを 1こ 入れるよ。
- つぎに、 糸の 右から 黒い ビーズを 2こ 入れるよ。
- つぎに、 糸の 左から 白い ビーズを 2こ 入れるよ。
- さいごに、 糸の 右から 白い ビーズを 1こ、 左から 黒い ビーズを 1こ 入れるよ。

アニアが 作った ブレスレットは どれかな？

(A) 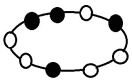　(B) 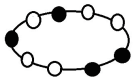　(C) 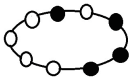　(D) 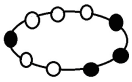　(E) 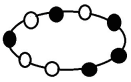

21. カードが 3まいと ふうとうが 2つ あるよ。

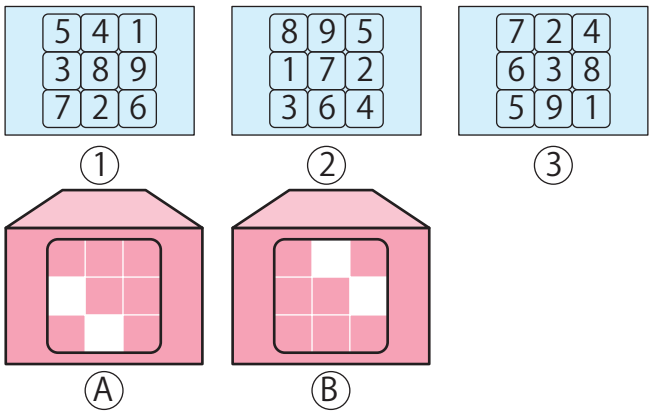

ラニムは 2つの ふうとうに カードを 1まいずつ そのままの むきで 入れたよ。
ふうとうの あなから 見える 4つの 数字は、 合計が 26に なったよ。
どの ふうとうに 何の カードを 入れたかな？

(A) Aの ふうとうに 1の カード、 Bの ふうとうに 3の カード
(B) Aの ふうとうに 2の カード、 Bの ふうとうに 1の カード
(C) Aの ふうとうに 3の カード、 Bの ふうとうに 1の カード
(D) Aの ふうとうに 3の カード、 Bの ふうとうに 2の カード
(E) Aの ふうとうに 2の カード、 Bの ふうとうに 3の カード

22. アレク、 ダレク、 マレクの 3人が、 ジムに いるよ。

アレク 「ぼくが いちばん さきに きたよ」
マレク 「ぼくは アレクよりも さきに きたよ」

ふたりとも うそを ついていて、 いっしょに きた 人は いないよ。
ジムに きた じゅんばんは どれかな？

(A) アレク、マレク、ダレク
(B) マレク、ダレク、アレク
(C) ダレク、マレク、アレク
(D) マレク、アレク、ダレク
(E) ダレク、アレク、マレク

23. マルティナは、 数字が かいてある コインを、 下のように ならべたよ。

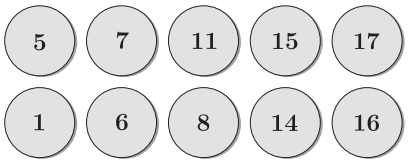

よこに ならんだ 5つの 数字の 合計が 上下 同じに なるように、 上の れつの コインと 下の れつの コインを 1まいだけ いれかえるよ。
上から 下へ いれかえる コインは どれかな？

(A) 5
(B) 7
(C) 11
(D) 15
(E) 17

24. イスタンブールに 7ひききょうだいの 子ネコが いるよ。

このうち、 オスの 1ぴきは アルバート、 メスの 1ぴきは ステラという 名前だよ。
ステラの 男きょうだいの 数は、 アルバートの 男きょうだいの 数の 2ばいだよ。
ステラには 女きょうだいが 何びき いるかな？

(A) 1
(B) 2
(C) 3
(D) 4
(E) 5